الفرض الثالث | مادة الرياضيات | المستوى 2

الإسم : .....

المؤسسة : .....

10

1

❖ أحسب كل مجموع و كل جداء حسب كل عملية من العمليات اسفله :

10 x 3 = . .	4 x 6 = . .	2+2+2+2+2+2 = X =
5 x 2 = . .	3 x 5 = . .	3+3+3+3+3 = X =
10 x 10 = . . .	4 x 4 = . .	

2

❖ أكتب معلمة كل خانة :

4				
3				
2				
1				
	أ	ب	ج	د

(,)

❖ أرسم على الشبكة التربيعية المسار المبين أسفله :

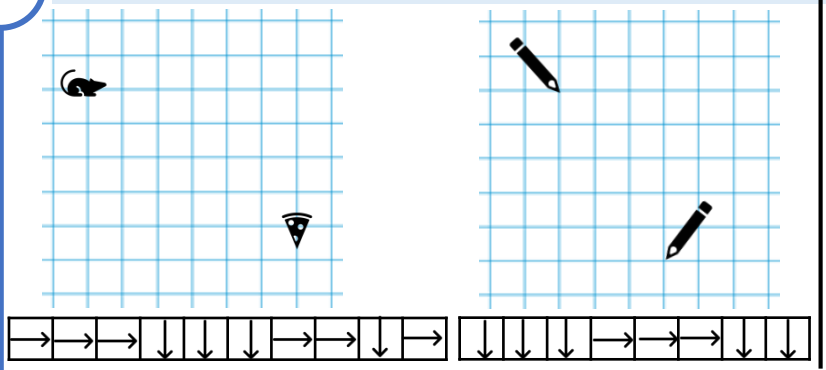

3

❖ أكمل كتابة علامات العد و أكتب العدد المناسب، ثم أتمم رسم المستطيلات. 2 =



الاشياء	علامات العد	العدد

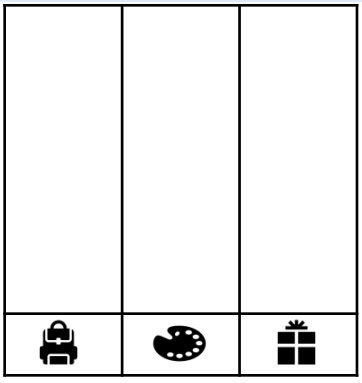

5

❖ أحسب جداء العددين ، ثم ألون الخانات على الشبكة حسب كل حالة :

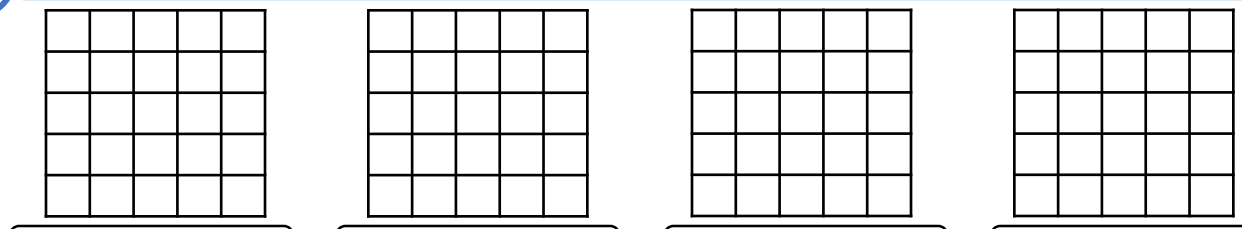

3 x 4 = . .

4 x 4 = . .

5 x 3 = . .

Modarisse.com